高三地理

文科综合共300分，考试时间150分钟。

地理试卷分为第Ⅰ卷（选择题）和第Ⅱ卷（非选择题）两部分，第Ⅰ卷1至3页，第Ⅱ卷3至4页，共100分。

第Ⅰ卷

一、单项选择题（每题4分，共44分）

空气质量指数数值越大说明空气污染状况越严重。读某日 20 时海平面气压分布图及16～24时北京空气质量指数变化柱状图，回答1-2题。

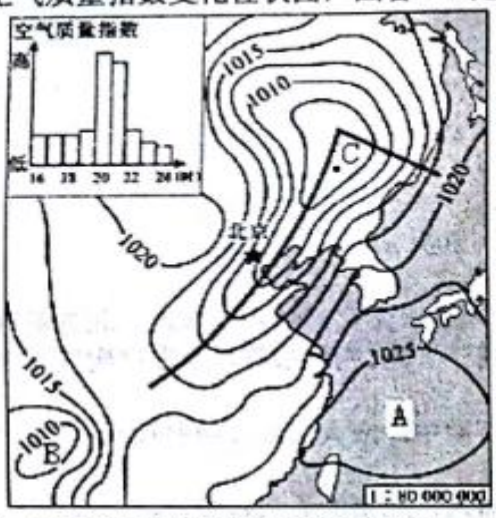

—1010— 等压线(hPa)

—— 锋

1．北京当日16～24时空气污染状况最轻时段为

A. 16时　　B. 18时　　C. 20时　　D. 24时

2．图中该日北京空气质量指数最大时段

A. A海海域阴雨天气，风平浪静　　B.低压天气系统中，B强度最强

C.北京大风扬沙，空气污染加重　　D.C地位于暖锋锋前，出现降水

读我国某生态产业园区的生产联系图，回答第3题。

3. 该生态产业园区中

A．产业结构体现了可持续发展观念

B．企业彼此间形成了生产工序上的联系

C．技术协作带来了企业间的集聚，从而避免了市场的竞争

D．物质的循环利用形成了第一、第二和第三产业间的联系

读某地等高线地形图和景观示意图，回答 4-5 题。

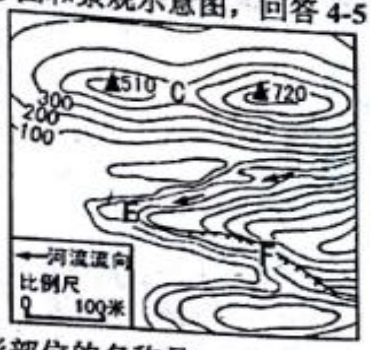

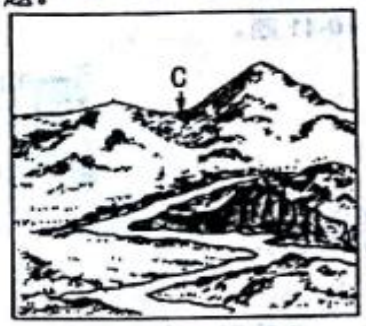

4．图中 C 处地形部位的名称是

A.山峰　　B.山谷　　C.陡崖　　D.鞍部

5．符合图中信息的是

A.图中最高山峰南坡比北坡陡　　B.两座山峰的相对高度是 200 米

C.EF 段河流的流向是自东北向西南　　D.两座山峰的实际水平距离是 150 米

读世界三地年内各月气温及降水量图，回答 6-7 题。

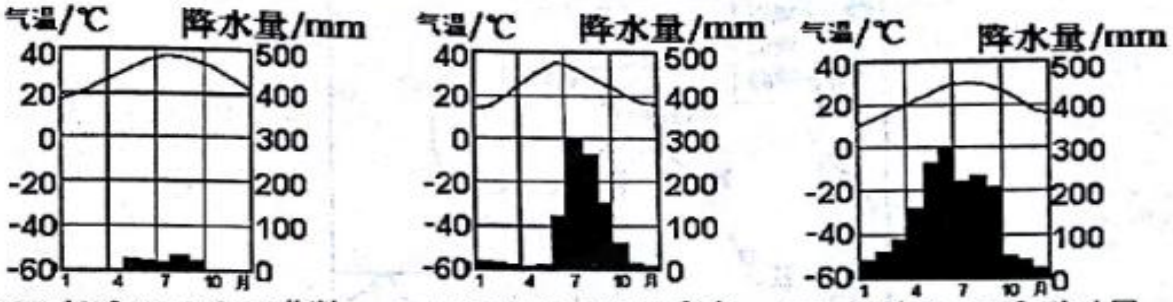

甲地（19° N，13° E）非洲　　乙地（25° N，81° E）印度　　丙地（23° N，113° E）中国

6．符合图中信息的是

A.甲地受副热带高气压带和西风带交替控制　　B.乙地湿润季节盛行东北风

C.位于我国东部的丙地季风气候显著　　D.甲地位于丙地的东北方向

7．三地

A.全年高温多雨　B.位于中低纬度,热量充足　C.气温年较差相同　D.降水季节分配均匀

我国某飞船于北京时间 10 月 12 日 9 时许成功发射，17 日凌晨返回。据此回答 8-9 题。

8．下图是以极点为中心的四幅半球图，若阴影部分表示飞船发射时刻区时为 10 月 12 日的范围，其中最接近的是

A　　B　　C　　D

9．飞船飞行期间，下列叙述正确的是

A.地球绕日公转的速度逐渐减慢　　B.赤道各地日出时，当地物体影子朝向东偏北

C.北半球各地昼夜长短相差越来越大　　D.南半球各地正午太阳高度角达一年中最大值

天津市内有近千幢小洋楼，很多体现了欧洲不同国家建筑风格，其中很多建筑有百年历史。据此回答 10-11 题。

10. 许多中外游客喜欢游览天津小洋楼，原因是小洋楼

A.反映天津气候特点 B.体现天津地方民俗 C.是天津的传统民居 D.具有历史文化价值

11. 为了保护这些文化遗产，在城市建设和发展中对这些小洋楼应该

A.全部拆除建新楼 B.按建设需要拆除 C.原地修缮保护 D.异地翻新重建

第Ⅱ卷

二、综合题（56 分）

12.（18 分）2015 年江西出台了《江西省实施“河长制”工作方案》。通过实施“河长制”，推动了该省河湖生态环境保护修复，加强了水体污染综合防治，大大改善了该省生态环境。读图文材料，回答问题。

（1）降水影响鄱阳湖水系的_____、_____和_____等。（6 分）

（2）据图文材料可知，该省实施“河长制”的有利自然条件有哪些？（4 分）

（3）说明该省为整治省内各大河流而实施全流域统一管理的“河长制”的原因。（4 分）

（4）下表为该省自然地理环境整体性各要素之间关系图，填写空项。（4 分）

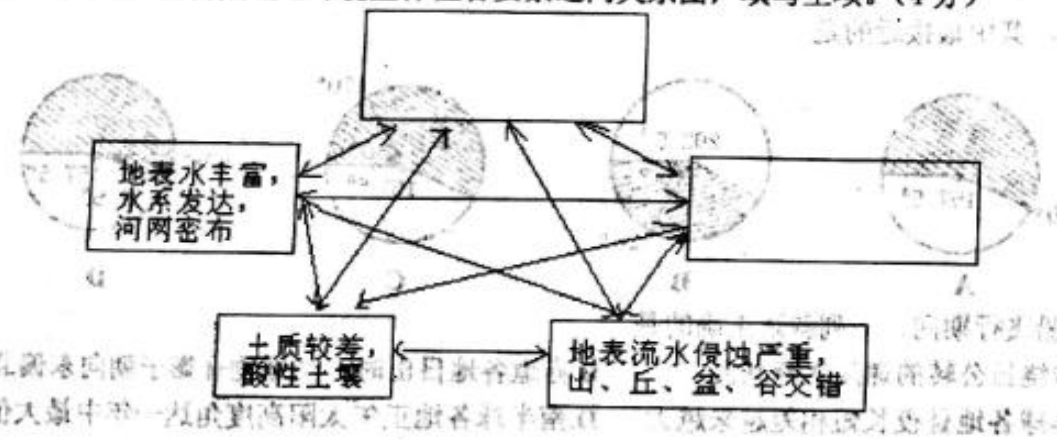

13.（22 分）读图文材料，回答问题。

京津冀都市圈区域规划图及蓟州区位置图

2010 年北京外来人口分省统计表

天津蓟州区乡村旅游转型升级，农家院变身“精品民宿”。“民宿”是利用农民空闲房屋，为消费者提供配套乡野休闲、养生的新型酒店模式。蓟州区的“精品民宿”将满足休闲、学习、考察、游览的市场需求。

（1）据图文材料，分析蓟州区民宿旅游快速发展的原因。（6 分）

天津将新建科技服务业集聚区，国家级文化产业示范基地，北方商贸中心，实施“千百十”电子商务工程，构建国际型港航现代物流体系等，全方位构建高增值、强辐射的现代服务业体系。

（2）据材料可知，天津在京津冀都市圈中，应大力发展哪些现代服务业？（4 分）

改革开放后，由于外来人口大量涌入，北京的人口规模持续快速增大。

（3）据表说明北京外来人口来源的特点。（6 分）

（4）作为超大城市，北京是否应限制外来人口？请表明你的态度，并说明理由。（6 分）

14.（16 分）丝绸之路的 A 地主要在河流两岸种植农作物和 B 地农作物主要分布在水分条件较好的沿海和沿河及三角洲地区。读图文材料，回答问题。

（1）阐述 A 地发展农业的自然条件。（8 分）

（2）阐述 B 地发展农业的有利自然条件。（4 分）

（3）随着陆上“丝绸之路”经济带的建设，我国西部一些城市作为新“丝绸之路”上的重要节点，将成为对外开放的前沿。这些城市应如何适应这种变化？（4 分）