雨花实小苏教版二年级数学第四册学习效果阶段反馈

一、细心算一算（24 分）

1. 直接写出得数（16 分）

60+300=	9000+60=	8+48=	800+500=
54÷6=	2600-600=	200+800=	3000+7000=
6070-70=	9+2000=	7×6=	72÷8=
1000-500=	63-7=	760-60=	8500-8000=

【答案】

360	9060	56	1300
9	2000	1000	10000
6000	2009	42	9
500	56	700	500

2. 用竖式计算（8 分）

47÷6=	30÷8=	63÷7=	25÷5=

【答案】竖式略

7 …… 5	3 …… 6	9	5

二、填空（35 分）

1. 一个三位数，它的最高位是（　　）位，最高位是千位的数是（　　）位数，从右边起，第五位是（　　）位.

【答案】百　　四　　万

2. 5 个千、6 个百和 4 个一组成的数是（　　），这个数读作（　　）.

【答案】 5604　　五千六百零四

3. 在算式 ◇÷☆=△ …… 6 中，除数最小是（　　）；

在算式○÷5=6 …… ★中，余数最大是（　　），被除数最大是（　　）.

【答案】7；4　34

爱智康 Tel:4000-121-121 www.izhikang.com

4. 在○里填上“＞”、“＜”或“＝”

1002○989　　100 分○1 时　　702○720

5001○5010　　1 米○10 分米　　69 毫米○7 厘米

【答案】

＞　　＞　　＜

＜　　＝　　＜

5. 小红用算盘表示了一个数，她先在个位上拨了一个上珠，然后在十位上拨了两个下珠，最后又在千位上拨了一个下珠，小红拨的数是（　　）.

【答案】 1025

6. 写出钟面上的时刻.





（　　）　　（　　）　　（　　）　　（　　）

【答案】10：10　　1：55　　11：20　　5：05

7. 在括号里填上合适的长度单位

一支铅笔大约长 2（　　）；　　一幢楼房高 15（　　）.

【答案】分米　　米

8. 找规律填数.

（1）5603、5703、5803、（　　）、（　　）.

（2）3870、3880、3890、（　　）、（　　）.

（3）（　　）、（　　）、8000、8005、8010.

【答案】（1）5903、6003、6103

（2）3900、3910、3920

（3）7990、7995

9. 小明站在 45 厘米高的凳子上和爸爸一样高，爸爸身高 175 厘米，小明身高（　　）厘米.

【答案】130

10. 要使 6□06＞6467，□里可以填（　　）；

Tel:4000-121-121 www.izhikang.com

要使 1874＜18□6，□里可以填（　　）种答案.

【答案】5、6、7、8、9；3

11. 从 5、1、0、9、4 中任选四个数组成一个四位数，这个数最大是（　　），最小是（　　），最接近 5000 的数是（　　）.

【答案】9541，1045，5014

12. 妈妈买了一些苹果，个数在 20~30 个之间，平均分给 4 个小朋友，还剩下 3 个，妈妈可能买（　　）个或（　　）个.

【答案】23，27

三、选择正确的序号填在括号里（7 分）

1. 下面说法中正确的是（　　）.

A. 分针走一大格是 1 分　　B. 时针走一大格是 1 时

C. 秒针走一大格是 1 秒　　D. 分针走一大格是 5 秒

【答案】B

2. 在 3600、3060、3006、4501、3000 中，只读一个“零”的数有（　　）个.

A. 1　　B. 2　　C. 3　　D. 4

【答案】C

3. 每个盒子里装 5 个苹果，求一共有多少个苹果，还需要什么条件？（　　）.

A. 每个苹果 2 元　　B.一共有 10 个苹果　　C. 有 3 盒苹果　　D. 每盒 6 个

【答案】C

4. 小明早晨从家出发，先向南走到超市，再向东走到学校，那么学校在小明家的（　　）方向.

A. 东北　　B. 东南　　C. 西北　　D. 西南

【答案】B

5. 星期天，爸爸和小红在家玩摆数游戏，下面的第一行是爸爸摆的，小红说爸爸摆了 4 个数，可是爸爸说他只摆了一个数，是 3675，于是小红也学着爸爸的样子摆了一个数，如第二行，小红摆的数是（　　）.

○○○	□□□□□□	✷✷✷✷✷✷✷	※ ※ ※ ※ ※
○○○○	□□□□□□	✷✷✷✷✷✷✷✷✷✷✷✷	※ ※ ※ ※ ※ ※

A. 46126　　B. 4726　　C. 3726　　D. 4675

【答案】B

爱智康 Tel:4000-121-121 www.izhikang.com

6. 如果将下图中的绳子拉直，它的长度大约为（　　）厘米.

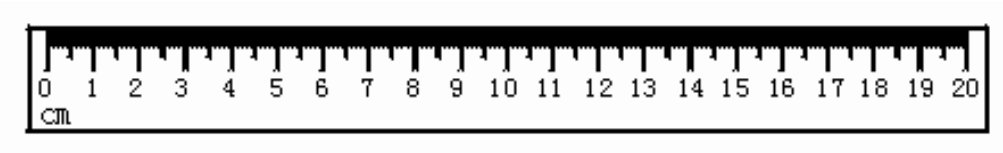

A. 5　　B. 6　　C. 7　　D. 8

【答案】D

7. 丽丽写了一个四位数，下面说法不正确的是（　　）.

A. 丽丽可能写的是 2900　　B. 丽丽不可能写的是 999

C. 丽丽一定写的是 1000　　D. 丽丽写的数不可能比 9999 大

【答案】C

四、操作题（8 分）

1. 画出下面钟面上缺少的指针（3 分）

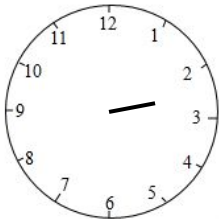

2：30



9：05

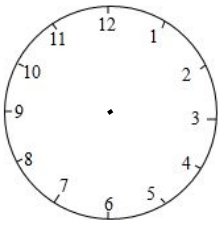

6：00

【答案】

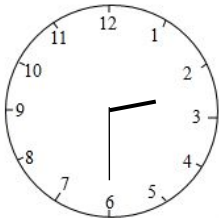

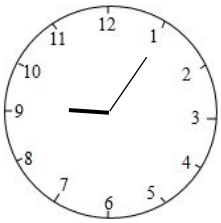



2. 按要求在右图中画图形（3 分）

（1）在★的东面画○，在○的南面画□ .

（2）在★的西北面画△.

	★	

【答案】

△		
	★	○
		□

3. 画一条 48 毫米的线段，再画一条比它短 2 厘米的线段（2 分）

【答案】略

五、解决实际问题（26 分）

1. 要修一条 2000 米的路，今天上午修了 1000 米，下午修了 800 米.今天一共修了多少米？（5 分）

【答案】1000+800=1800（米）

答：今天一共修了 1800 米.

2. 做一个灯笼要用 6 张纸，40 张纸可以做几个灯笼，还剩几张纸？（5 分）

【答案】40÷6=6（个）…… 4（张）

答：40 张纸可以做 6 个灯笼，还剩 4 张纸.

3. 一根钢筋长 5 米，切割成 8 分米长的小段，最多可以切割成多少段？（4 分）

【答案】5 米=50 分米

50÷8=6（段）…… 2（分米）

答：最多可以切割成 6 段.

4. 43 个同学去公园划船，每条船限坐 7 人，至少需要几条船？（4 分）

【答案】43÷7=6（条）…… 1（人）

6+1=7（条）

答：至少需要 7 条船.

5. 下面是苏果超市近 4 天的营业额情况记录：（8 分）

星期一	星期二	星期三	星期四
5923 元	4062 元	2031 元	3898 元
大约（　　）元	大约（　　）元	大约（　　）元	大约（　　）元

（1）在表中填出每天的营业额大约各是几千元.

（2）星期（　　）的营业额和星期（　　）差不多.

（3）星期（　　）的营业额比星期（　　）多得多.

【答案】（1）

爱智康 Tel:4000-121-121 www.izhikang.com

星期一	星期二	星期三	星期四
5923 元	4062 元	2031 元	3898 元
大约（6000）元	大约（4000）元	大约（2000）元	大约（4000）元

（2）二、四

（3）一、三

爱智康 Tel:4000-121-121 www.izhikang.com