2017-2018广州市越秀区四年级下学期期末测试卷

一、计算．

1 直接写出得数．

（1）$2.5+3.6=$　　$9.1-7.6=$　　$345+199=$　　$900-398=$

$0\div1357=$　　$27.3\times100=$　　$0\times101=$　　$68.3\div1000=$

（2）$280\div5\div2=$　　$130-30\times2=$　　$10\times10\div10\times10=$　　$(8.2+2.8)\times5=$

2 用竖式计算下面各题，第（2）题要验算．

（1）$5.72+32.8=$

（2）$100-85.63=$

3 用递等式计算下面各题（能简算的要简算，并写出必要的简算过程）．

（1）$26.78-(6.78+13.5)$．

（2）$487+30.18+113+19.82$．

（3）$(237+43)\times5\div14$．

（4）$125\times32\times25$．

（5）$99\times78-78\times39+40\times78$．

（6）$85\times[720\div(100-76)]$．

二、填空题．

4 $530+$ _____ $=610$．

$810-$ _____ $=390$.

_____ $-532=468$.

_____ $\times 9=225$.

$368\div$ _____ $=8$.

_____ $\div 6=150$.

5 一个数是由5个百，2个一，3个十分之一，8个千分之一组成的，这个数写作 _____ ，读作 _____ ，这是一个 _____ 位小数 .

6 在下面的○里填上“>”、“< ”或“=” .

3.14 ◯ 3.140　102.20 ◯ 10.220　36个$\frac{1}{10}$ ◯ 0.036

$6.75t$ ◯ $6t75kg$　$3040m$ ◯ $304km$　25×39 ◯ $25\times 40-1$

7 地球到太阳的平均距离是149600000千米，把这个数改写成以“亿千米”作单位的数是 _____ 亿千米，精确到百分位约是 _____ 亿千米 .

8 若一元人民币可以换0.2098澳元，则1万元人民币可以换 _____ 澳元 .

9 把一个两位小数按照“四合五人法”取近似数是3.6 . 这个两位小数最大是 _____ ，最小是 _____ .

10 如图，这个图形的面积是 _____ 平方厘米 .

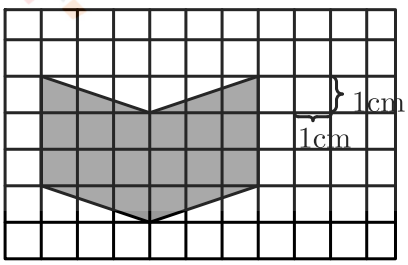

11 根据右图分步算式，在下面横线上写出综合算式．

_____ ．

①$12+6=18$

②$18\times5=90$

③$3690\div90=41$

三、选择题．

12 33.3里面一共有（　）个0.01．

A. 3

B. 33

C. 333

D. 3330

13 下面的几组线段中（单位：厘米），能围成三角形的一组是（　）．

A. 6、3、3

B. 2.5、3.5、6

C. 6、4、3

D. 2、5、8

14 有一个三角形，其中一个内角刚好等于另外两个内角之和，这个三角形是（　）三角形．

A. 等边

B. 锐角

C. 直角

D. 钝角

15 下面各数中，不改变数的大小，一个0也不能去掉的是（　　）．

A. 2.0200

B. 200.02

C. 20.020

D. 0.2200

16 长青老年合唱团中，最年轻的是70岁，最大年龄是80岁，这个合唱团的平均年龄是（ ）．

A. 70岁

B. 75岁

C. 80岁

D. 70至80岁间

17 如果把3.405的小数点去掉，相当于把原数（ ）．

A. 除以100

B. 除以1000

C. 乘1000

D. 乘100

18 填一填，算一算，画一画．

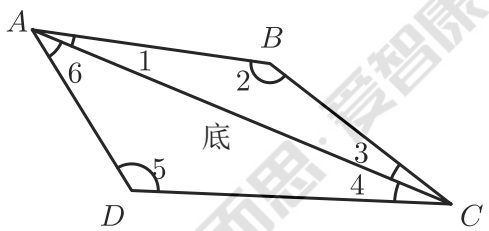

（1）三角形ADC是 _____ 角三角形．

（2）若$AB = BC$，$\angle 1 = 25°$，则$\angle 2 =$ _____ °．

（3）画出三角形ABC指定底边上的高．

（4）$\angle 1 + \angle 2 + \angle 3 + \angle 4 + \angle 5 + \angle 6 =$ _____ °．

四、操作与计算题．

19 连一连．

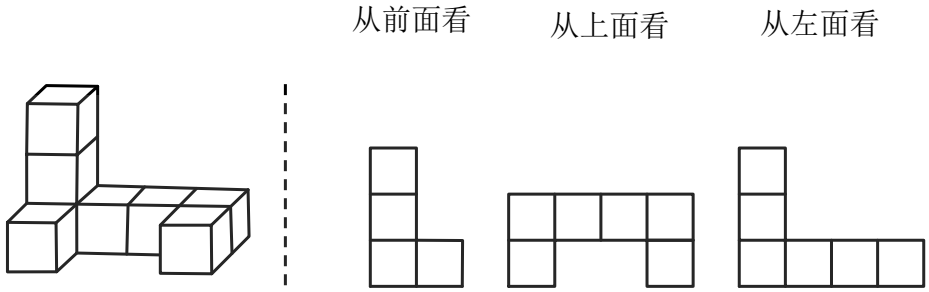

20 画一画，填一填．

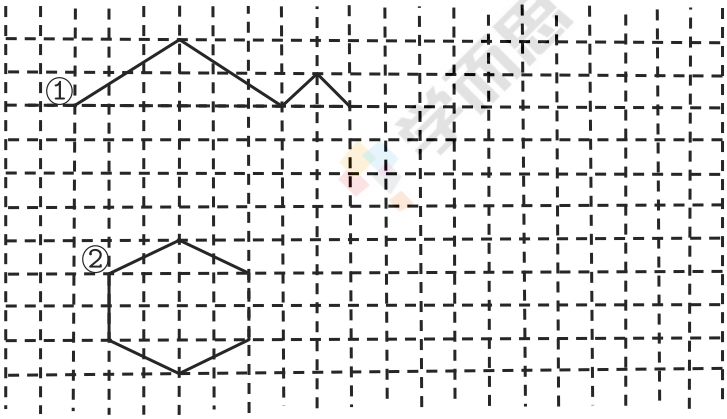

（1）以图①的虚线为对称轴，画出这个轴对称图形的另一半．

（2）画出图②的其中1条对称轴．

（3）画出图②先向右平移10格，再向上平移5格后的图形．

21 完成统计图并填空．

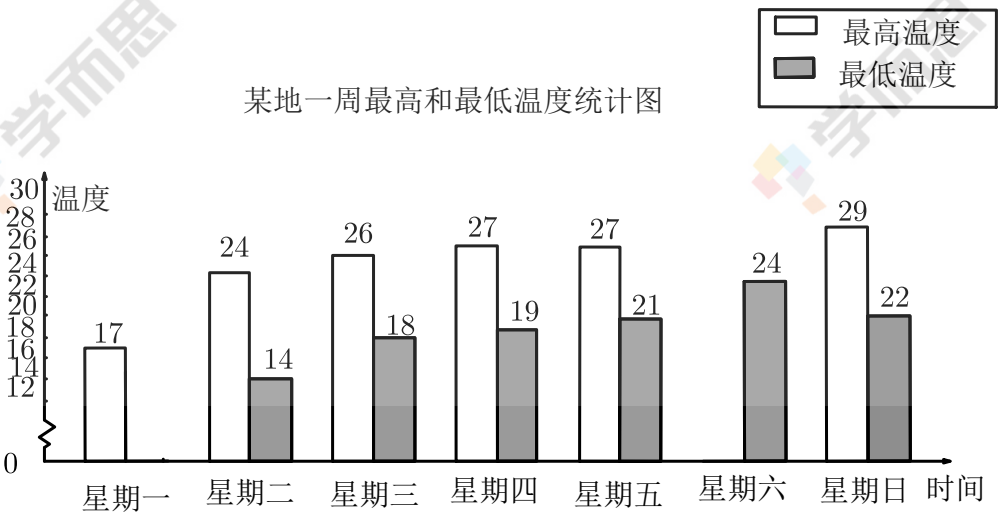

（1）根据下面有关数据，请完成右面的统计图．

①星期一最低温度15°C．

②星期六最高温度28°C．

（2）星期 _____ 温差最大．

（3）这一周最低温度平均是 _____ °C．

（4）这一周最高温度呈 _____ 趋势．（填“上升”、“平稳”或“下降”）

五、解决问题．

22 水果店共进了25箱桃子，每箱重15千克．每千克桃子售价9元，这畔桃子一共能卖多少元？【列综合算式解答】

23 小王每分钟能打字95个，小方每分钟能打字105个．照这样计算，小王和小方15分钟一共能打字多少个？【用两种方法解答】

24 在“亲子阅读”活动中，小明每天读15页书，爸爸7天共读315页书，爸爸平均每天的阅读量是小明的多少倍？

25 小冬身高1.38米，比小军矮0.21米，小军比小林高0.07米，小林身高多少米？

26 五羊旅行社推出“广州一日游”两种方案．王叔叔和林叔叔两个家庭共6个成人，3个儿童，他们选择哪种方案更省钱？

方案一	方案二
成人 ： 168元 /人	团队 ： 118元 /人
儿童 ： 68元 /人	（8人或 8人以上 ）